060300 Dämpfer und Federgabel

1. Welche Unterschiede bestehen zwischen Federgabeln mit und ohne Negativkammer.

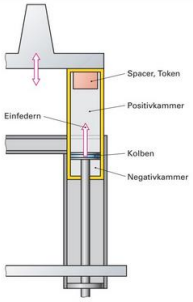

2. Zwischen welchen Grundprinzipien der Öldämpfung wird unterschieden?

3. Beschreiben Sie den Ölfluss beim Ein- und Ausfedern.

4. Wodurch wird die Luftkammer im nebenstehenden Bild zusammengedrückt.

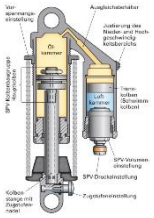

5. Wie wirken elektronische Federungen?
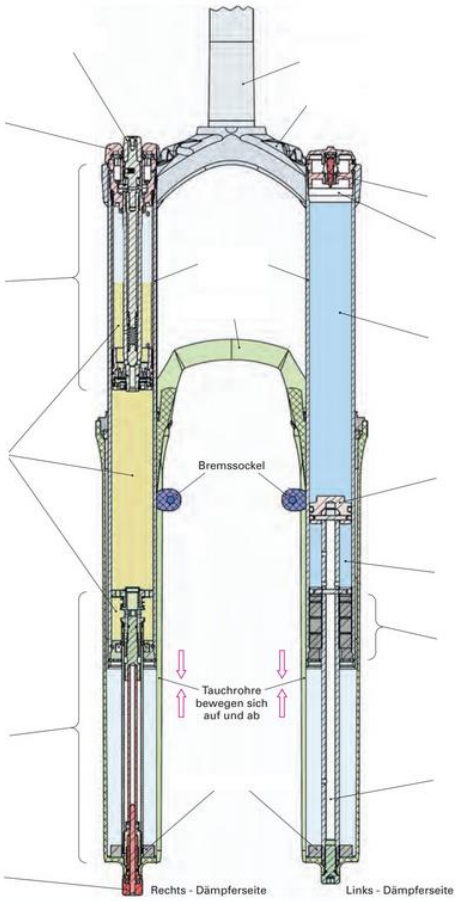
6. Vervollständigen Sie die Darstellung.