06000115 Fragen zur Federung nach Fachkundebuch Kapitel 5.11

1. Welche zwei Aufganen hat die Federung?

2. Wann wurde die ersten gefederten Fahrräder eingeführt und welche Fahrradart war das?

3. Was versteht man unter menschlicher Federung?

4. Wie wird die Federwirkung von Reifen genannt?

5. Nennen Sie die Formel für die Federhärte.

6. Auf welcher Seite finden Sie Angaben zur Federhärte im Tabellenbuch?

7. Tragen Sie ein: linear, degressiv oder progressiv

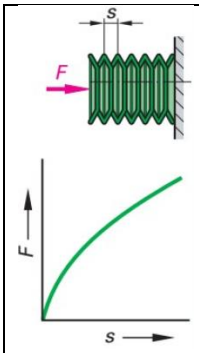	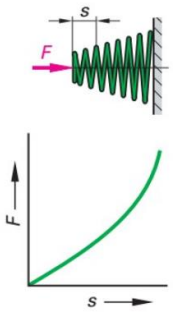	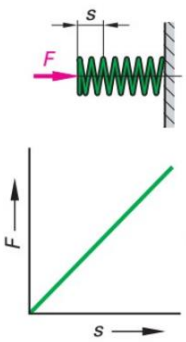

8. Nennen Sie ein Vorteil und einen Nachteil von Schraubenfedern

9. Was sind Elastomere?
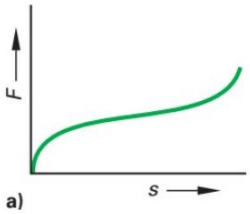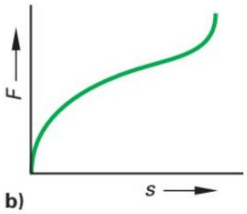
10. Erklären Sie den Unterschied zwischen den beiden Diagrammen