03013 elektronische Schaltzeichen-w

Aufgabe benennen Sie die Bauteile und deren Funktion. Unten finden Sie einige Beispiele für die Funktion der Bauteile.

1.	Name: Funktion:	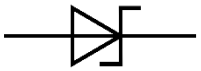
2.	Name: Funktion:	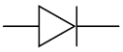
3.	Name: Funktion:	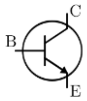
4.	Name: Funktion:	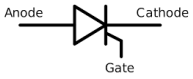
5.	Name: Funktion:	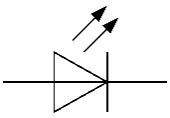
6.	Name: Funktion:	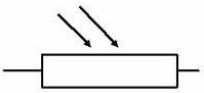
7.	Name: Funktion:	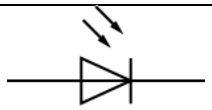
8.	Name: Funktion:	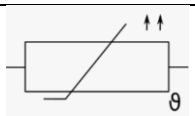
9.	Name: Funktion:	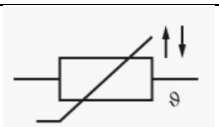
	Verringert den Widerstand bei steigender Temperatur / Wird leitend bei Lichteinwirkung / Erhöht den Widerstand bei steigender Temperatur / Verringert den Widerstand bei Lichteinwirkung / Leuchtet beim Stromfluss / Wird ab einer bestimmten Spannung leitend / lässt den Strom nur in eine Richtung durch / Wird leitend zwischen C und E, so lange an B Spannung eine anliegt / Wird leitend zwischen Anode und Kathode, wenn Gate einen Spannungsimpuls erhält.	